بسم ا... الرحمن الرحیم

نام و نام خانوادگی: آزمون مدادی کاغذی ریاضی

هرکدام از شکل ها از چند تا ☐ درست شده است؟به این تعداد در جای خالی چوب خط بکش.

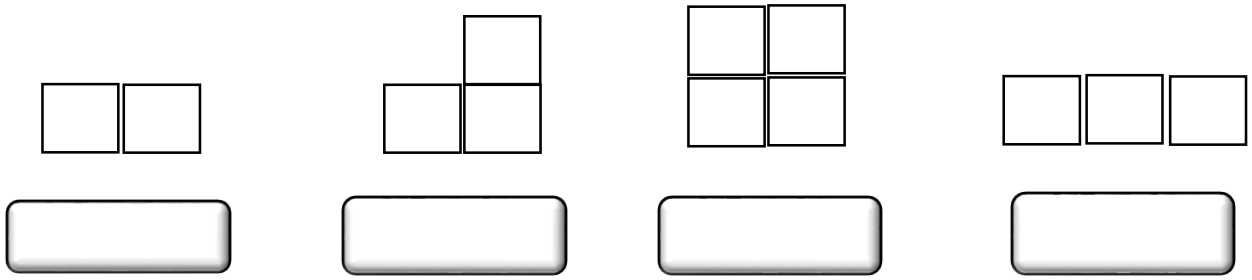

شکل های هر دو دسته روی هم چند تا می شوند؟عدد را بنویس.

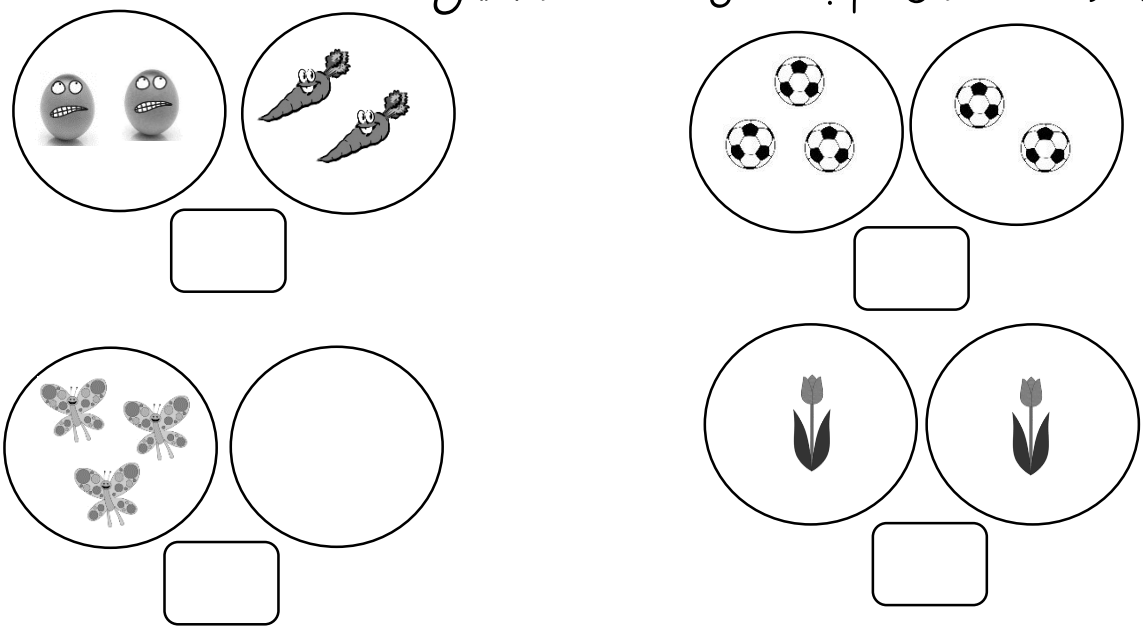

دور شکل های مثل هم خط بسته بکش.



یک گردی روی خط بسته، یک چهارگوش داخل خط بسته و یک سه گوش خارج خط بسته بکشید.

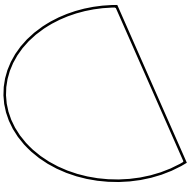

جدول زیر را با عدد های ۱ و ۲ و ۳ و ۴ کامل کن.

۳	۱		
	۴	۱	۳
۱	۲		۴
		۲	

به تعداد عدد نوشته شده شکل بکش.

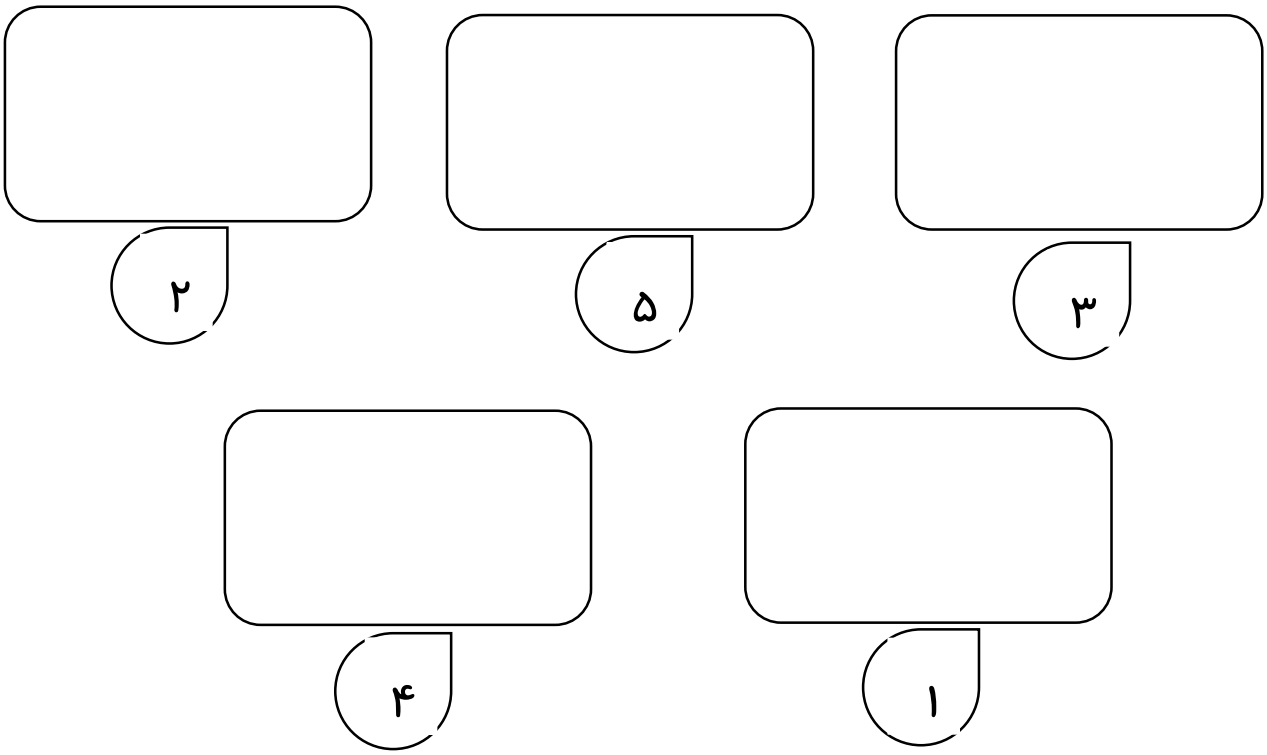

برای شکل های زیر، یک خط تقارن با خط کش بکش.



بشمار ، چوب خط بکش ، تعداد را بنویس.



خیلی خوب ◯ خوب ◯ قابل قبول ◯ نیاز به تلاش بیشتر ◯

بازخورد:

