نام و نام خانوادگی: .....

کاربرگ ریاضی پیش دبستانی

تاریخ: .....

۱. دور شکلی که باز است خط بسته بکش و روی شکل بسته است علامت ضربدر بزن.



۲. قبل از چراغ راهنمایی چه شکلی قرار دارد؟ دور آن خط بسته بکش و آن را رنگ کن.

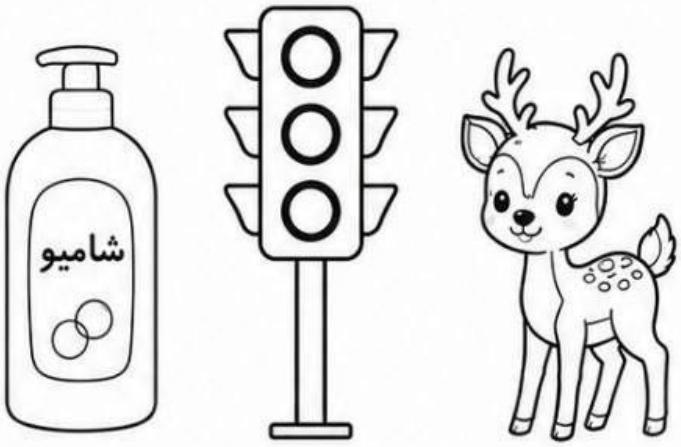

۳. مرغی که تعداد کمتری تخم مرغ دارد را به دلخواه رنگ کن.



۴. شکلی که با بقیه متفاوت است دور آن خط بسته بکش و آن را رنگ بزن.

