به نام خداوندآفریننده‌ی دانا

ریاضی فصل ۱

نام:

نام خانوادگی:

موضوع: ساعت در بعدازظهر-عملکردی

- شاگرد خوبم! پازل‌هایی که یک زمان را نشان می‌دهند را بعد از بریدن کنار هم بچسبان.



۵:۴۵ بعدازظهر

۱۳:۵۵

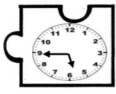

۴:۳۵ بعدازظهر

۱۹:۱۰



۸:۰۵ بعدازظهر

۲۱:۲۰

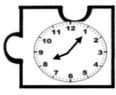

۹:۲۰ بعدازظهر

۱۷:۴۵

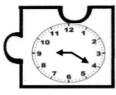

۷:۱۰ بعدازظهر

۲۰:۰۵



۱:۵۵ بعدازظهر

۱۶:۳۵

سعی کن با حوصله و دقت رنگ آمیزی کنی،بعد برش بزنی و در برگه آچار بچسبانی.