

ادامه بده عزیزم

۷-۸-۹-۱۰ - ___ - ___ - ___ - ___ - ___ - ___ - ___ - ___

۲۵-۲۶-۲۷-۲۸ - ___ - ___ - ___ - ___ - ___ - ___ - ___ - ___

۴۵-۴۶-۴۷-۴۸ - ___ - ___ - ___ - ___ - ___ - ___ - ___ - ___

۶۹-۷۰-۷۱-۷۲ - ___ - ___ - ___ - ___ - ___ - ___ - ___ - ___

۸۲-۸۳-۸۴-۸۵ - ___ - ___ - ___ - ___ - ___ - ___ - ___ - ___

۲-۴-۶-۸ - ___ - ___ - ___ - ___ - ___ - ___ - ___ - ___

۰-۳-۶-۹ - ___ - ___ - ___ - ___ - ___ - ___ - ___ - ___

۰-۴-۸-۱۲ - ___ - ___ - ___ - ___ - ___ - ___ - ___ - ___

حاصل عبارت های زیر را بنویس

۳۰ + ۳۰ = ___	۶۰ - ۴۰ = ___	۲۰ + ۷۰ = ___
۶۰ + ۲۰ = ___	۵۰ - ۱۰ = ___	۹۰ - ۸۰ = ___

۷۰ - ۳۰ = ___	۳۰ + ۵۰ = ___

دانش آموز بدون کمک والدین باید خودش بتواند بخواند و پاسخ بدهد .

۱ – اِرمیا۱۴تامداد داشت . بَرادَرش۳مداد از او گرفت . اکنون اِرمیا چند مداد دارَد.

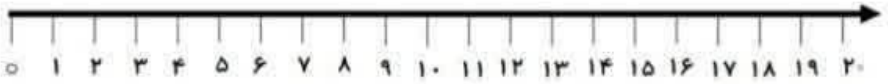

۲ – مهدی ۵ بادکنک داشت . آروین ۶ بادکنک دیگر به او داد . اکنون مهدی چند بادکنک دارَد .

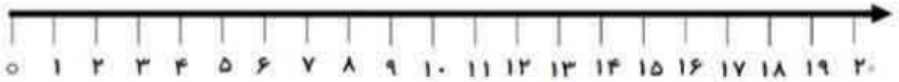

۳- پارسا ۱۲ توپ سبز و قرمز دارد . ۸ تا از توپ ها قرمز است . چند تا از توپ ها سبز اَست ؟



۴ – نیما ۷ تا ماشین دارَد . مادرش ۶ تا ماشین دیگر برای او خرید . اکنون نیما چند ماشین دارد ؟



خوب بخوان و درست پاسخ بده ؟

۱-مریم ساعَت ۳ به خانه رسید. او ۶ ساعت بعد از رسیدن به خانه خوابید .

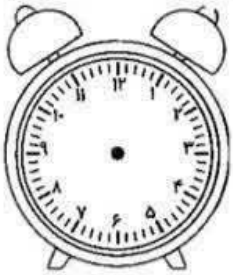

او در چه ساعتی خوابیده است .

۲-علی ساعت ۹ صبحانه خورد او دو ساعت قبل از صبحانه خوردن از خواب بیدار شده بود . او در چه ساعتی بیدار شده است ؟

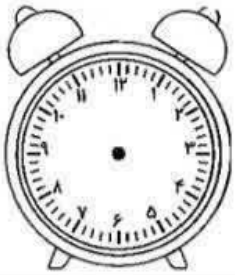

۳-مادر مریم ساعت ۶ شروع به آشپزی کرد . آشپزی مادرش ۴ ساعت بعد تمام شد . غذای آن ها در چه ساعتی آماده شده است؟

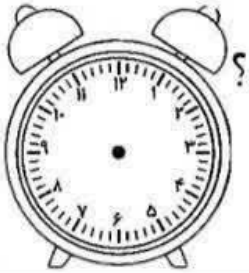

۴-مهدی ساعت۳ شروع به خواندن کتاب داستانش کرد .۵ساعت بعد کتابش تمام شد .او در چه ساعتی کتاب را تمام کرده است ؟



نام و نام خانوادگی

آزمون ریاضی اردیبهشت ماه

سال ۱۴۰۰/۱۴۰۱

۱-عزیزانم عددها را بخوانید و با رقم یا با حروف بنویسید.



دوازده



۶۲



هشتادوهفت



۴۰

۲-نازینانم قبل و بعد اعداد زیر را بنویسید .

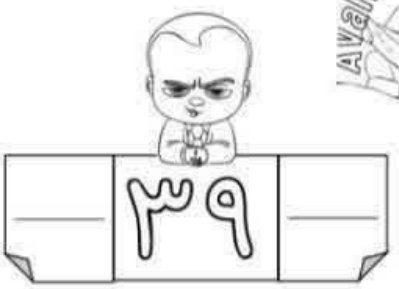

۳۹



۸۰



۶۵

۳-در هر قسمت با توجه به جمع و تفریق شکل بکشید و جواب را بنویسید .







۴-علامت < = > بگذارید .

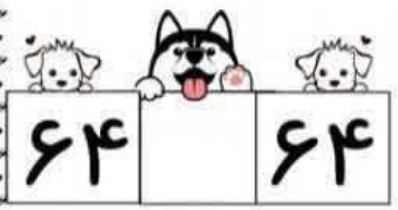

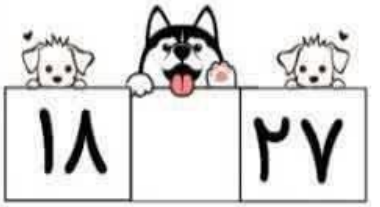



نام و نام خانودگی :

مرور تابستان









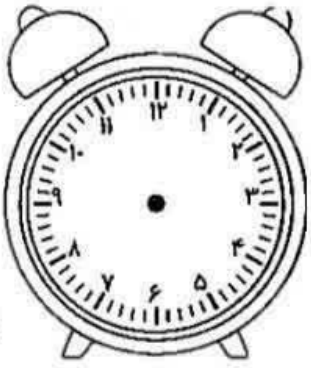



ساعت از ۴ گذشته است .

ساعت کمی ۷ به مانده است .





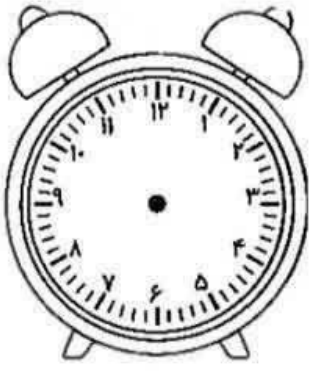

ساعت ۹ است .

ساعت بین ۲و۳ است .

ساعت از ۱۲ گذشته است .

۵- عزیزانم در جای خالی عدد مناسب بنویسید .







کمی به ساعت ـــــ مانده است. ساعت بین ـــ و ـــ است. ساعت از ۹ گذشته است

۶ –جواب جمع و تفریق ها را با استفاده از محور پیدا کنید .

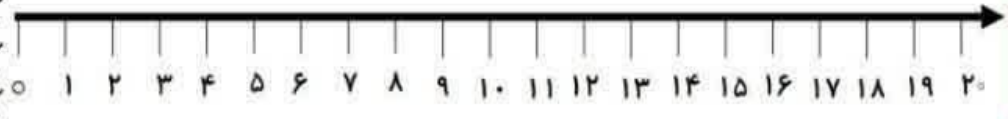

۱۶-۷=

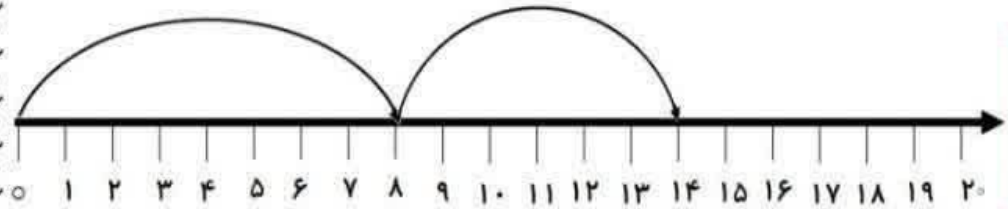

۷-مهدی ۱۵ بادکنک داشت. ۶ تا ازبادکنک هایش را به خواهرش داد .

حالا مهدی چند بادکنک دارد ؟(روش دلخواه)

۸-حاصل عبارت های زیر رابه دست آورید .

۱۰+۲۰+۵+۵+۲= ☐

۱۰+۱۰+۵+۱۰-۱۰= ☐

۳۰+۱۰+۱۰+۵-۵ = ☐

۱۰+۱۰+۲۰+۱۰-۱۰= ☐



