به نام خدا

نام ونام خانوادگی :..... ..... آزمون ریا ضی پایه اول

۱ باتوجه به شکل جدول را را کامل وعدد مربوط را خارج جدول بنویس

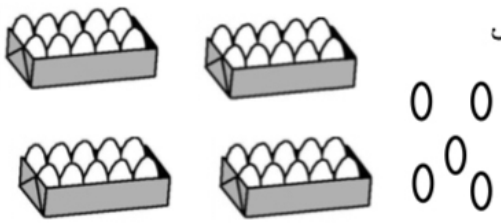

ده تایی	یکی

۲ پاسخ جمع ها را به کمک چوب خط بنویس.

۶+۷= ☐

۴+۳+۳+۵= ☐

۳ جاهای خالی را با عدد مناسب کامل کن .

۵	۱۰					۳۵			

۴ شکل را طوری کامل کن که دونیمه ی آن مثل هم باشد .

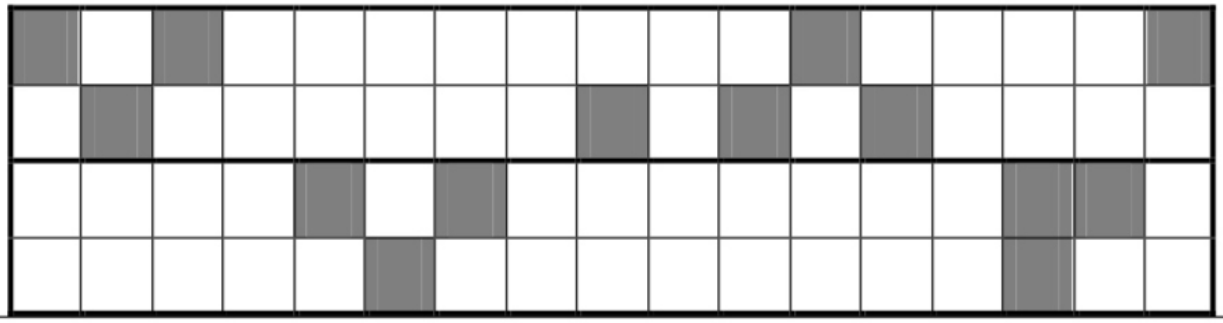

۵ جواب هر جمع را به صورت ذهنی حساب کن وبنویس .

۱۰+۵ −۳= ☐

۲۰+۱۰+۵+۱۰= ☐

۶ دنباله ی عددها را به ترتیب بنویس.

							۶۷	۶۶	۶۵

۷ درهر ردیف پاسخ عبارت ها را بنویس ودور علامت مناسب <=> خط بکش.

۵۰−۲۰= ☐ < = > ☐ =۲۰+۲۰

۶ + ۸= ☐ < = > ☐ =۵ + ۷

۸ با رقم یا حروف بنویس .

۹۰		هفتاد وشش	
	۴۹		هفده

۹ با توجه به شکل جاهای خالی را کامل کن.



..... = ... + ...



..... = ... − .....

۱۰ اندازه ی مداد بین ..... و..... است .

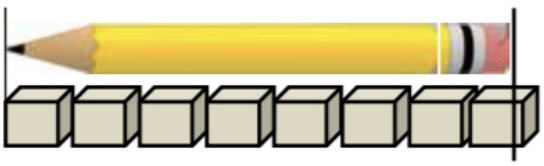

۱۱

مسئله را با چوب خط یا شکل ساده حل کن وعبارت جمع یا تفریق آن را بنویس .

۷ اردک در آب بودند . ۳ اردک دیگر هم به آن ها اضافه شدند .

حالا چند اردک درآب است ؟

حالا.....اردک در آب است

۱۲

مسئله را به کمک محور حل کن .(عبارت جمع یا تفریق آن را هم بنویس)

۱۲ پرنده روی درخت بودند . ۴ تا از پرنده ها پروازکردند ورفتند .

چند پرنده مانده است ؟

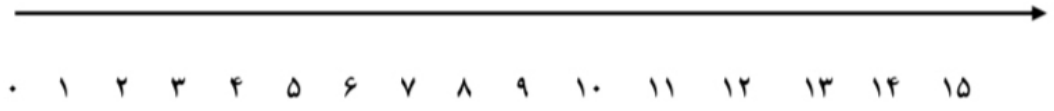

.....پرنده مانده است.

موفـق وسربلند باشید

بازخورد معلم :