

آفریدگار مهربان همراه من است

کاربرگ ۱

درس: ریاضی | عنوان درس:فصل8، آمار و نمودار | پایه: دوم

مفهوم: دسته‌بندی، جمع‌آوری و شمارش اطلاعات، بازنمایی اطلاعات در جدول سرشماری (صفحه ی ۱۲۸و۱۲۹و۱۳۰)

نام دانش آموز: | تاریخ: / /

۱-کمد لباس‌های خود را با دقّت نگاه کن، با توجّه به لباس‌های داخل کمد جدول زیر را کامل کن و به پرسش‌ها پاسخ بده. (پیراهن، بلوز یا شلوار)

رنگ لباس	چوب خط	تعداد

الف) در کمد لباس‌هایت از کدام رنگ، لباس بیش‌تری بود؟ .....

ب) در کمد لباس‌هایت از کدام رنگ، لباس کم‌تری بود؟ .....

ج) در مجموع در کمد شما چند لباس بود؟ .....

۲- آموزگار به بچّه‌ها گفته بود که در یک جدول نوع هوای هر روز را یادداشت کرده و بعد از ۲ هفته به کلاس بیاورند. جدول زیر برای یکی از بچّه‌های کلاس است.

ابتدا جدول را کامل کن و بعد به پرسش‌ها پاسخ بده و ۲ سوال به همراه پاسخ خودت به سوالات اضافه کن.

نوع هوا	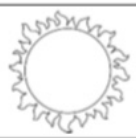			
چوب خط	////		///	//
تعداد		۵		

الف) چند روز هوا آفتابی بود؟ .....

ب) چه نوع هوایی از همه کم‌تر بوده است؟ .....

ج) ..... ؟.....

د) .....؟ .....

۳- اشکال هندسی درون کیسه را با رسم چوب خط، سرشماری و جدول را کامل کن.

شکل	چوب خط	تعداد
مربّع		
مثلّث		
دایره		



*مجموع شکل‌های داخل کیسه چند تا است؟ .....

*بیش‌ترین و کم‌ترین تعداد مربوط به کدام شکل است؟

بیش‌ترین .....

کم‌ترین .....

*تعداد هر شکل را در جای خالی بنویس و حاصل را به دست بیاور.



..... = ۲۰۰ + ...



..... = ۲۰۰ + ...



..... = ۲۰۰ + ...

*مجموع مثلث‌ها و مربع‌ها روی هم چند می‌شود؟ (از اعداد جدیدی که به دست آوردی استفاده کن.)

*به تعداد دایره‌های داخل کیسه در کادر زیر دایره بکش. ٤ تا از آن‌ها را سبز کن و به سوالات زیر پاسخ بده.

–چه کسری از دایره‌ها زرد شده است؟ ..... دایره از ..... دایره سبز شده است.

–چه کسری از دایره‌ها بدون رنگ است؟ .....