پایه اول

آزمون نوبت دوم ریاضی

به نام خدای رنگین کمان

دبستان.....

نام قشنگم .....

تاریخ .....

فرزندم الگو را با رنگ کردن ادامه بده

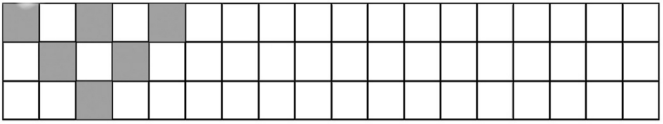

اندازه ی هر شکل چند تا فلس است؟ عدد آن را بنویس

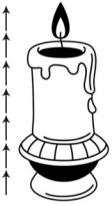

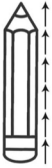

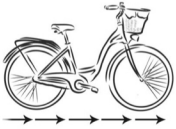

قسمت پایین شکل را با شابلن کامل کن ،

شکل را طوری رنگ بزن که دو نیمه ی آن مثل

هم باشد

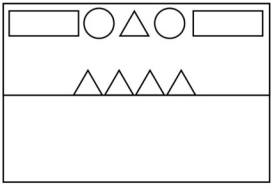

جدول را کامل کن

۸	۵	۷	۴	۳			۲	۹
۳		۱	۹	۵	۲	۴	۷	۸
	۴	۲	۶		۸	۳	۱	۵
۴	۱	۵	۲	۶	۷	۹	۸	۳
۲	۹	۶	۵	۸	۳	۷	۴	۱
۷	۳			۹	۴		۵	۶
۱	۲			۴	۶	۵	۳	۷
۵	۸	۳	۷	۲	۹	۱	۶	۴
۶	۷	۴	۳	۱			۹	۲

عدد هر ساعت را بنویس

زمان بین ساعت ..... و..... است

.....

زمان بین ساعت ..... و..... است

جواد ۳۹ عدد شکلات داشت. ۸ تای آن را به مجتبی و ۶تای آن را به ارسلان داد .
حالا چند شکلات برای خودش باقی مانده است؟

از عدد ۴۹ تا ۶۸ بنویس

.....

جاهای خالی را با عدد مناسب پر کن

ده تایی	یکی	ده تایی	یکی	ده تایی	یکی	ده تایی	یکی	ده تایی	یکی
۳۹		۱	۹			۶	۶		
				۴۲				۲۸	
								۶	۶

جواب جمع ها و تفریق ها را بنویس

۴۰−۳۰=

۸۰+۱۰−۵۰+۶=

۲۰+۵−۱۰−۱۰=

۲۰+۵+۱۰+۵−۱۰−۱۰=

الگوها را ادامه بده

۲−۱۲ _ _ _ _ _ _ _ _ _

+۱۰

۴۰ − ۳۵ _ _ _ _ _ _ _ _

−۵

نظر معلم:

خیلی خوب ☐

خوب ☐

قابل قبول ☐

نیاز به تلاش بیشتر ☐